24 La Terre dans le système solaire

Évaluation

Nom : ..... Date : .....

1 **Donne un exemple pour chacun des astres suivants du système solaire.**

- Une étoile : .....
- Une planète : .....
- Un satellite : .....

2 **Complète les légendes avec les mots suivants : *étoiles, comètes, astéroïdes.* Relie ensuite chacune d'entres elles à la photographie qui la représente.**

Les ..... sont des boules de glace et de poussières.	Les ..... sont des petits astres rocheux qui tournent autour du Soleil.	Les ..... sont des astres qui produisent de la lumière.



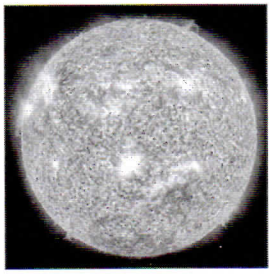

3 **Pour chaque affirmation, coche *vrai* (V) ou *faux* (F). Si l'affirmation est fausse, corrige-la.**

	V	F
a. Le Soleil est au centre du système solaire.	☐	☐
b. Une planète est un astre qui émet de la lumière.	☐	☐
c. Les planètes se différencient uniquement par leur taille.	☐	☐

.....

.....

© MDI / SEJER, 2016. Reproduction autorisée pour une classe seulement.

4 **Donne un titre à ce dessin puis légende-le avec les mots suivants : *Jupiter – Mercure – Terre – Vénus – Neptune – Mars – Uranus – Saturne – Soleil.***

Titre : .....

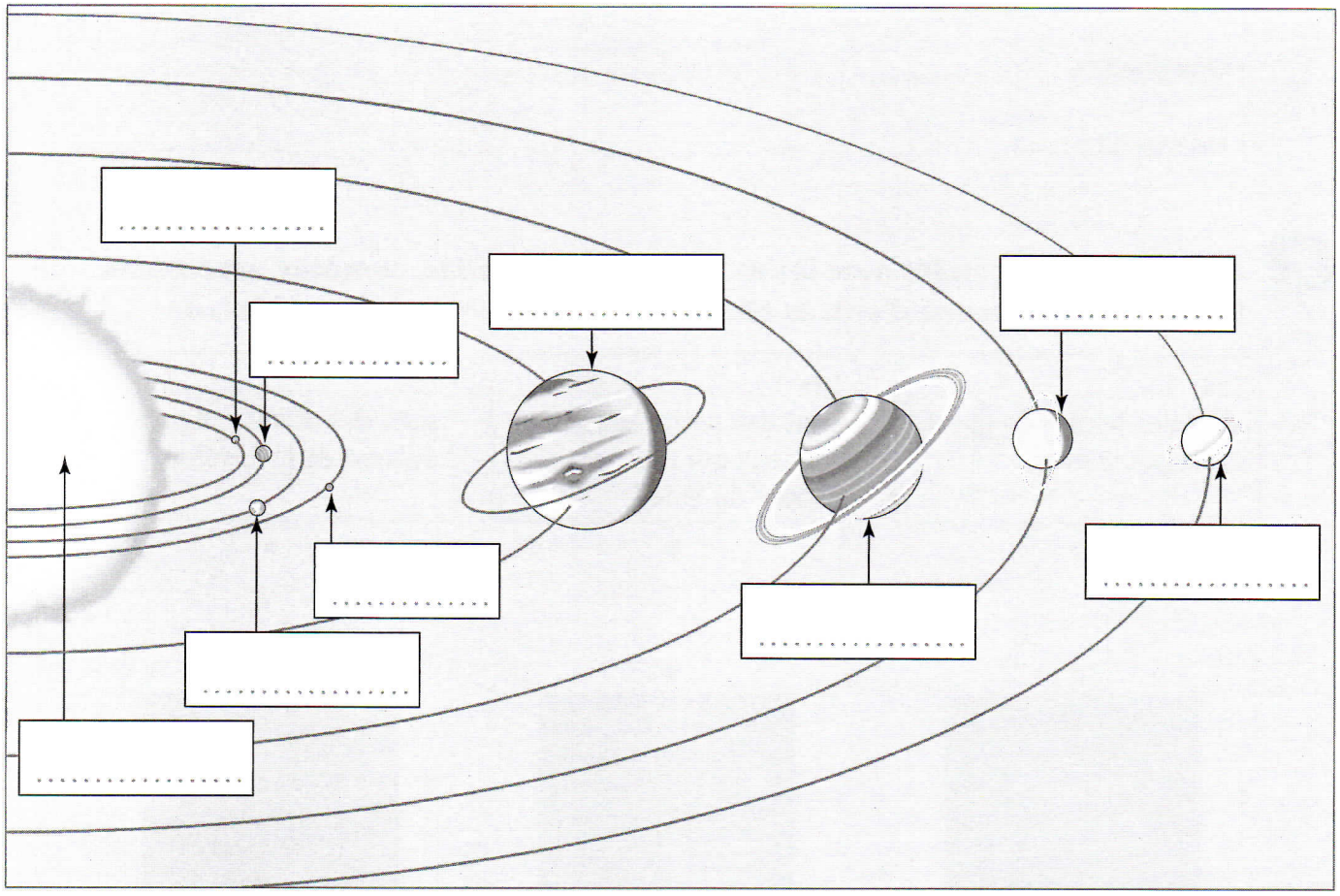

5 **Complète le tableau ci-dessous avec les huit planètes du système solaire.**

Planètes rocheuses	Planètes gazeuses
.....	.....
.....	.....
.....	.....
.....	.....

Je m'évalue	oui	non
Je sais que le Soleil est une étoile qui est au centre d'un système solaire constitué de 8 planètes dont la Terre.		
Je sais situer la Terre dans le système solaire.		
Je sais différencier étoile, planète et satellite.		
Je sais différencier les planètes du système solaire.		

© MDI / SEJER, 2016. Reproduction autorisée pour une classe seulement.